Igualando Termómetros con Temperatura

Nombre:

Determinar cuál letra responde mejor a cada pregunta.

1) ¿Qué termómetro representa mejor 53° de temperatura?

2) ¿Qué termómetro representa mejor 98° de temperatura?

3) ¿Qué termómetro representa mejor 77° de temperatura?

4) ¿Qué termómetro representa mejor 106° de temperatura?

5) ¿Qué termómetro representa mejor 47° de temperatura?

6) ¿Qué termómetro representa mejor 86° de temperatura?

7) ¿Qué termómetro representa mejor 34° de temperatura?

8) ¿Qué termómetro representa mejor 81° de temperatura?

9) ¿Qué termómetro representa mejor 20° de temperatura?

10) ¿Qué termómetro representa mejor 38° de temperatura?

A.

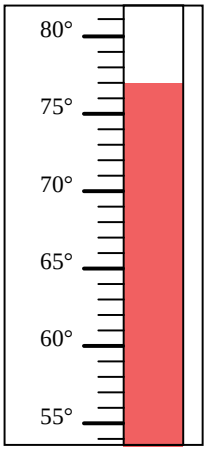

B.

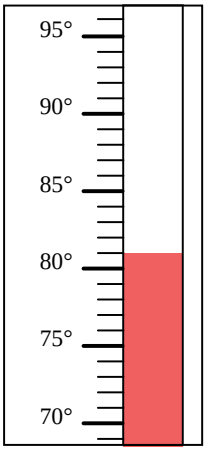

C.

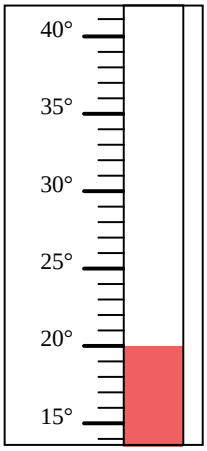

D.

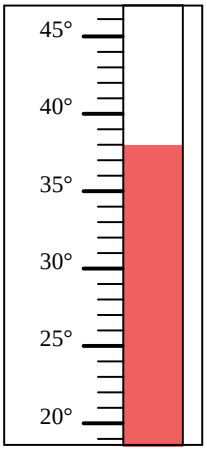

E.

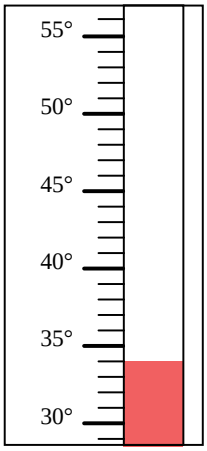

F.

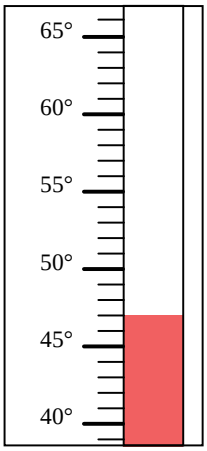

G.

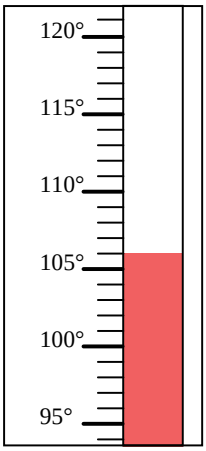

H.

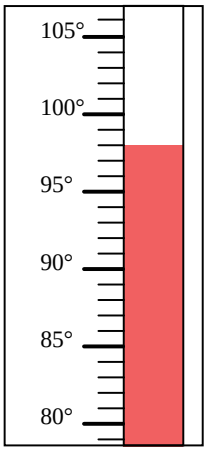

I.

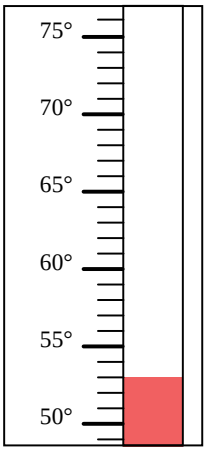

J.

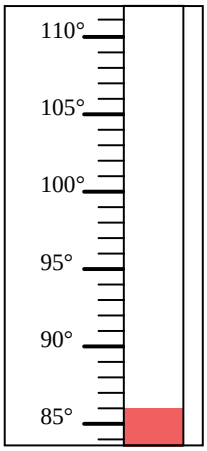

Respuestas

1. _____
2. _____
3. _____
4. _____
5. _____
6. _____
7. _____
8. _____
9. _____
10. _____

1-10	90	80	70	60	50	40	30	20	10	0

Igualando Termómetros con Temperatura

Nombre: **Clave De Respuestas**

Determinar cuál letra responde mejor a cada pregunta.

1) ¿Qué termómetro representa mejor 53° de temperatura?

2) ¿Qué termómetro representa mejor 98° de temperatura?

3) ¿Qué termómetro representa mejor 77° de temperatura?

4) ¿Qué termómetro representa mejor 106° de temperatura?

5) ¿Qué termómetro representa mejor 47° de temperatura?

6) ¿Qué termómetro representa mejor 86° de temperatura?

7) ¿Qué termómetro representa mejor 34° de temperatura?

8) ¿Qué termómetro representa mejor 81° de temperatura?

9) ¿Qué termómetro representa mejor 20° de temperatura?

10) ¿Qué termómetro representa mejor 38° de temperatura?

A.

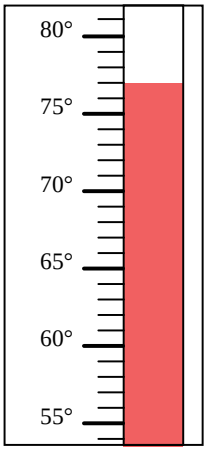

B.

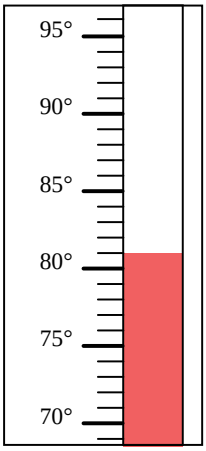

C.

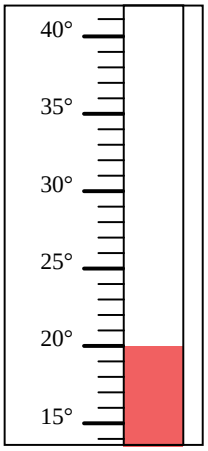

D.

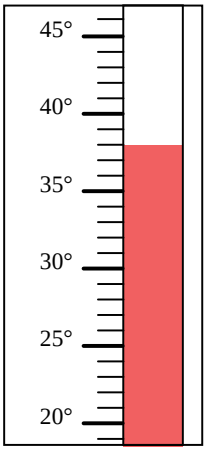

E.

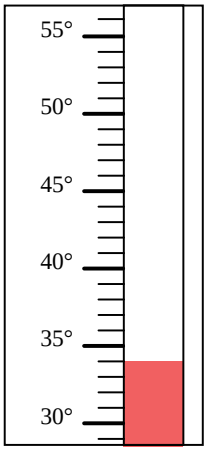

F.

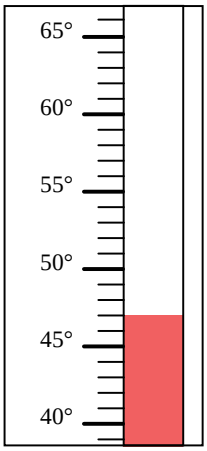

G.

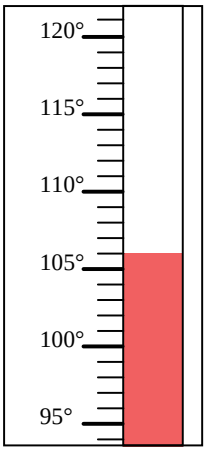

H.

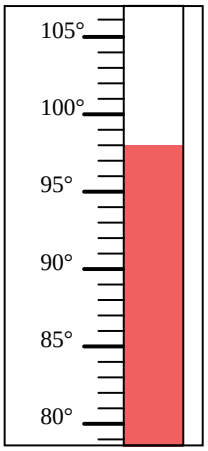

I.

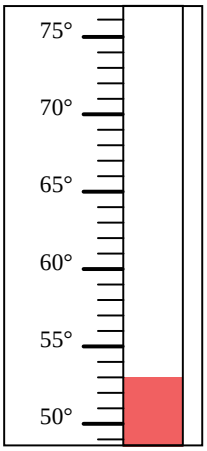

J.

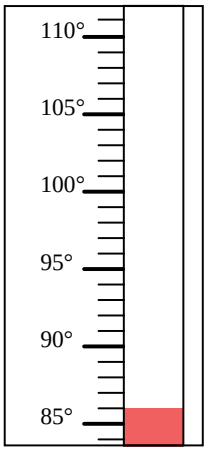

Respuestas

1. **I**
2. **H**
3. **A**
4. **G**
5. **F**
6. **J**
7. **E**
8. **B**
9. **C**
10. **D**

1-10	90	80	70	60	50	40	30	20	10	0