Encontrando razones (Visual)

Nombre:

Resuelve cada problema.

Ej) ¿Cuál es la relación de estrellas a pentagonos?



1) ¿Cuál es la relación de pentagonos a estrellas?

2) ¿Cuál es la relación de hearts a cuadros?

3) ¿Cuál es la relación de pentagonos a estrellas?

4) ¿Cuál es la relación de estrellas a circulos?



5) ¿Cuál es la relación de circulos a pentagonos?

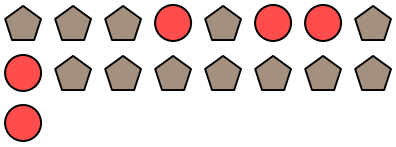

6) ¿Cuál es la relación de pentagonos a hearts?



7) ¿Cuál es la relación de triangulos a pentagonos?

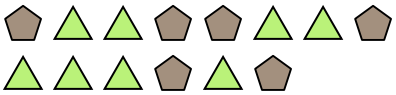

8) ¿Cuál es la relación de cuadros a circulos?

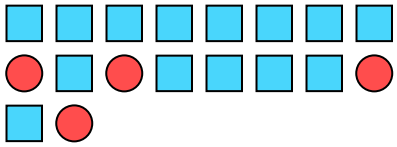

9) ¿Cuál es la relación de estrellas a pentagonos?

10) ¿Cuál es la relación de moons a hearts?

11) ¿Cuál es la relación de moons a cuadros?

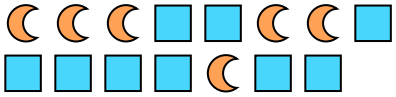

Respuestas

Ej. 15:10

1. _____
2. _____
3. _____
4. _____
5. _____
6. _____
7. _____
8. _____
9. _____
10. _____
11. _____

1-10	91	82	73	64	55	45	36	27	18	9
11	0									

Nombre: **Clave De Respuestas**

Resuelve cada problema.

Ej) ¿Cuál es la relación de estrellas a pentagonos?



1) ¿Cuál es la relación de pentagonos a estrellas?

2) ¿Cuál es la relación de hearts a cuadros?

3) ¿Cuál es la relación de pentagonos a estrellas?

4) ¿Cuál es la relación de estrellas a circulos?



5) ¿Cuál es la relación de circulos a pentagonos?

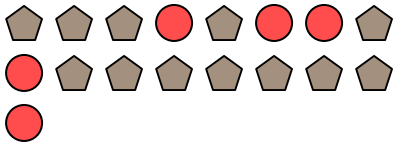

6) ¿Cuál es la relación de pentagonos a hearts?



7) ¿Cuál es la relación de triangulos a pentagonos?

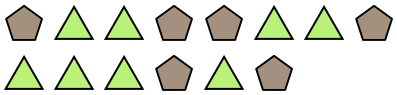

8) ¿Cuál es la relación de cuadros a circulos?

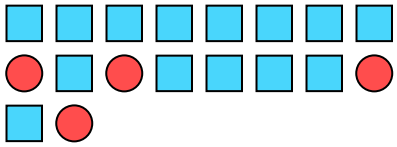

9) ¿Cuál es la relación de estrellas a pentagonos?

10) ¿Cuál es la relación de moons a hearts?

11) ¿Cuál es la relación de moons a cuadros?

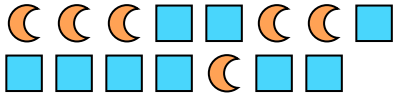

Respuestas

Ej.	15:10
1.	8:12
2.	10:2
3.	11:5
4.	3:10
5.	5:12
6.	14:15
7.	8:6
8.	14:4
9.	7:5
10.	8:5
11.	6:9

1-10	91	82	73	64	55	45	36	27	18	9
11	0									