Encontrando razones (Visual)

Nombre:

Resuelve cada problema.

Ej) ¿Cuál es la relación de triangulos a circulos?

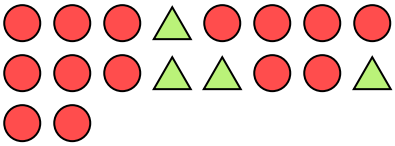

1) ¿Cuál es la relación de moons a pentagonos?

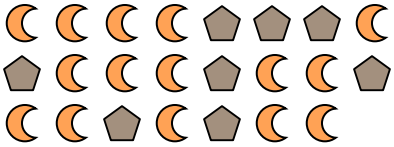

2) ¿Cuál es la relación de circulos a estrellas?

3) ¿Cuál es la relación de cuadros a triangulos?

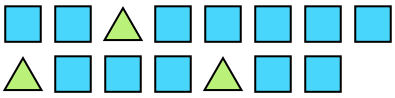

4) ¿Cuál es la relación de triangulos a pentagonos?

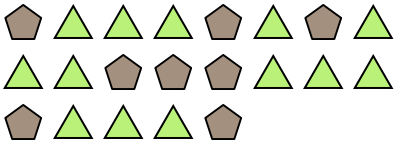

5) ¿Cuál es la relación de triangulos a hearts?

6) ¿Cuál es la relación de moons a circulos?

7) ¿Cuál es la relación de circulos a moons?



8) ¿Cuál es la relación de moons a estrellas?

9) ¿Cuál es la relación de estrellas a pentagonos?



10) ¿Cuál es la relación de circulos a moons?



11) ¿Cuál es la relación de pentagonos a moons?

Respuestas

Ej. 4:14

1. _____
2. _____
3. _____
4. _____
5. _____
6. _____
7. _____
8. _____
9. _____
10. _____
11. _____

1-10	91	82	73	64	55	45	36	27	18	9
11	0									

Nombre: **Clave De Respuestas**

Resuelve cada problema.

Ej) ¿Cuál es la relación de triangulos a circulos?

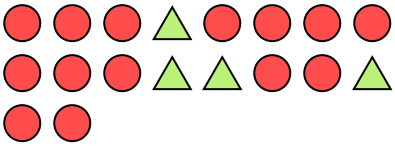

1) ¿Cuál es la relación de moons a pentagonos?

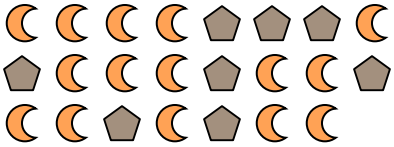

2) ¿Cuál es la relación de circulos a estrellas?

3) ¿Cuál es la relación de cuadros a triangulos?

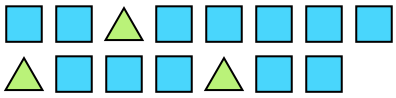

4) ¿Cuál es la relación de triangulos a pentagonos?

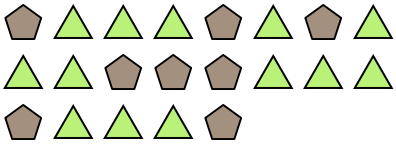

5) ¿Cuál es la relación de triangulos a hearts?

6) ¿Cuál es la relación de moons a circulos?

7) ¿Cuál es la relación de circulos a moons?



8) ¿Cuál es la relación de moons a estrellas?

9) ¿Cuál es la relación de estrellas a pentagonos?



10) ¿Cuál es la relación de circulos a moons?



11) ¿Cuál es la relación de pentagonos a moons?

Respuestas

Ej.	4:14
1.	15:8
2.	9:7
3.	12:3
4.	13:8
5.	4:10
6.	5:4
7.	11:12
8.	7:5
9.	6:13
10.	8:15
11.	2:3

1-10	91	82	73	64	55	45	36	27	18	9
11	0									