Comparando dos medidas

Nombre:

Compara el ancho de los dos bloques.

Ej)



1)

2)

3)

4)

5)

6)

7)



8)

9)

Respuestas

Ej.	$3\ ^1/_2$	8 - 9
1.		
2.		
3.		
4.		
5.		
6.		
7.		
8.		
9.		

1-9	89	78	67	56	44	33	22	11	0

Comparando dos medidas

Nombre: **Clave De Respuestas**

Compara el ancho de los dos bloques.

Ej)



1)

2)

3)

4)

5)

6)

7)



8)

9)

Respuestas

Ej.	$3\frac{1}{2}$	8 - 9
1.	3	7 - 8
2.	$5\frac{1}{2}$	13 - 14
3.	4	10 - 11
4.	$2\frac{1}{2}$	6 - 7
5.	$4\frac{1}{2}$	11 - 12
6.	1	2 - 3
7.	5	12 - 13
8.	$1\frac{1}{2}$	3 - 4
9.	$0\frac{1}{2}$	1 - 2

1-9	89	78	67	56	44	33	22	11	0