Interpretación de histogramas Nombre:

Utilice los histogramas que se muestran para responder cada pregunta.

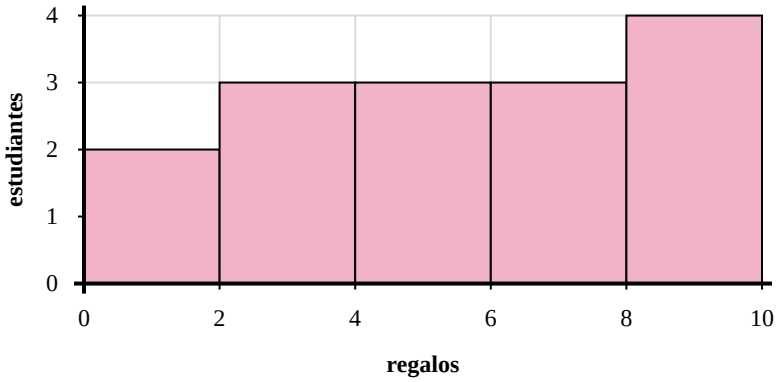

1) ¿Cuántos estudiantes recibieron entre 0 y 2 regalos?

2) ¿Cuántos estudiantes están representados en este histograma?

3) Si un estudiante recibiera 6 regalos, ¿a qué barra se agregaría?

4) La mayoría de los estudiantes recibieron entre _____ y _____ regalos.

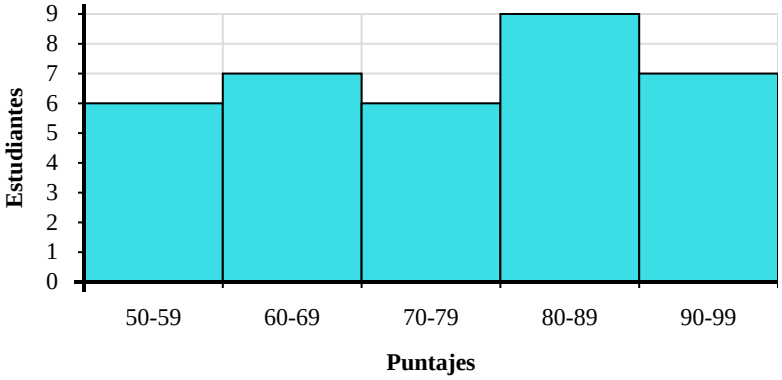

5) ¿Cuántos estudiantes están representados en este histograma?

6) ¿Cuántos estudiantes puntuaron entre un 50 y 60?

7) La mayoría de los estudiantes obtuvieron un puntaje entre _____ y _____.

8) Si un estudiante obtuviera un 54, ¿a qué barra se agregaría?

Respuestas

1. _____
2. _____
3. _____
4. _____ _____
5. _____
6. _____
7. _____ _____
8. _____

1-8	88	75	63	50	38	25	13	0

Utilice los histogramas que se muestran para responder cada pregunta.

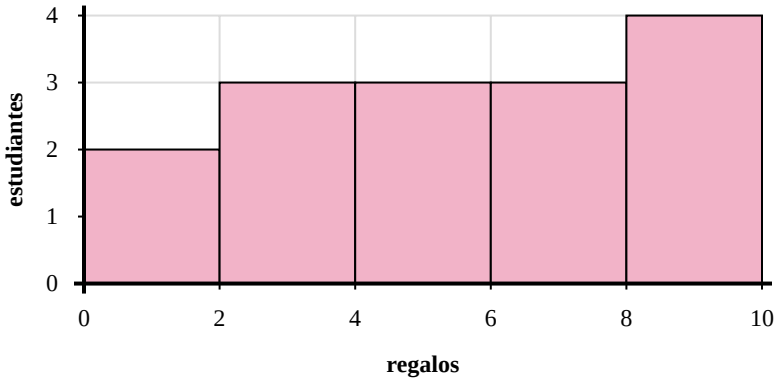

1) ¿Cuántos estudiantes recibieron entre 0 y 2 regalos?

2) ¿Cuántos estudiantes están representados en este histograma?

3) Si un estudiante recibiera 6 regalos, ¿a qué barra se agregaría?

4) La mayoría de los estudiantes recibieron entre _____ y _____ regalos.

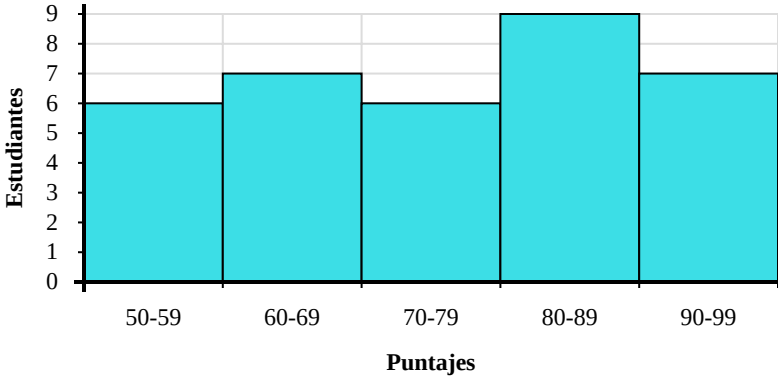

5) ¿Cuántos estudiantes están representados en este histograma?

6) ¿Cuántos estudiantes puntuaron entre un 50 y 60?

7) La mayoría de los estudiantes obtuvieron un puntaje entre _____ y _____.

8) Si un estudiante obtuviera un 54, ¿a qué barra se agregaría?

Respuestas

1. 2
2. 15
3. 4
4. 8 10
5. 35
6. 6
7. 80 90
8. 1

1-8	88	75	63	50	38	25	13	0