Determinando la relación a 90°

Nombre:

Determina si el ángulo mostrado es 'mayor', 'menor' o 'igual' a 90°.

Ej)

1)

2)

3) 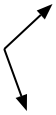

4)

5)

6)

7) 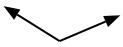

8)

9)

10) 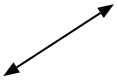

11)

12)

13)

14)

15)

16)

17)

18)

19) 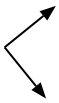

20)

Respuestas

Ej. **menor**

1. _____
2. _____
3. _____
4. _____
5. _____
6. _____
7. _____
8. _____
9. _____
10. _____
11. _____
12. _____
13. _____
14. _____
15. _____
16. _____
17. _____
18. _____
19. _____
20. _____

1-10	95	90	85	80	75	70	65	60	55	50
11-20	45	40	35	30	25	20	15	10	5	0

Determinando la relación a 90°

Nombre: **Clave De Respuestas**

Determina si el ángulo mostrado es 'mayor', 'menor' o 'igual' a 90°.

Ej)

1)

2)

3)

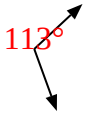

4)

5)

6)

7)



8)

9)

10)

11)

12)

13)

14)

15)

16)

17)

18)

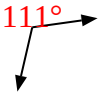

19)

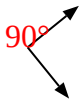

20)

Respuestas

Ej.	menor
1.	mayor
2.	menor
3.	mayor
4.	menor
5.	menor
6.	igual
7.	mayor
8.	mayor
9.	igual
10.	mayor
11.	igual
12.	menor
13.	menor
14.	igual
15.	menor
16.	mayor
17.	igual
18.	mayor
19.	igual
20.	menor

1-10	95	90	85	80	75	70	65	60	55	50
11-20	45	40	35	30	25	20	15	10	5	0