Estimando el Peso (Métrico) Nombre:

Determina cuál letra mejor representa el peso del objeto.

Grama (g)
Un gramo es aproximadamente el peso de un clip.

Kilogramo (kilogramo)
Un kilogramo es aproximadamente el peso de un libro grueso.



Recuerda:
Kilo significa 1,000. Entonces, un kilogramo son 1,000 gramos. 1 kilogramo también pesa aproximadamente lo mismo que 2 libras.

1)

Bola de tenis
A. 1 gramo
B. 15 kilogramos
C. 1 kilogramo
D. 50 gramos

2)

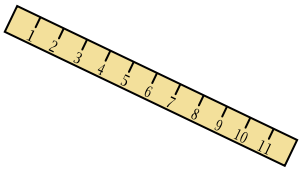

Regla
A. 999 gramos
B. 30 kilogramos
C. 20 gramos
D. 1 gramo

3)

Vela
A. 4 gramos
B. 10 kilogramos
C. 500 gramos
D. 2 kilogramos

4)

Juego de pesas
A. 200 gramos
B. 1 kilogramo
C. 100 kilogramos
D. 100 gramos

5)



Palomita de maíz
A. 1 kilogramo
B. 100 gramos
C. 100 kilogramos
D. 1 gramo

6)

Estufa
A. 15 kilogramos
B. 15 gramos
C. 70 gramos
D. 70 kilogramos

7)

Clavo
A. 3 gramos
B. 500 gramos
C. 3 kilogramos
D. 2 kilogramos

8)



Tornillo
A. 1 gramo
B. 500 kilogramos
C. 500 gramos
D. 1 kilogramo

9)

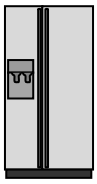

Refrigerador
A. 40 gramos
B. 200 gramos
C. 10 kilogramos
D. 90 kilogramos

Respuestas

1. _____
2. _____
3. _____
4. _____
5. _____
6. _____
7. _____
8. _____
9. _____

1-9	89	78	67	56	44	33	22	11	0

Nombre: **Clave De Respuestas**

Determina cuál letra mejor representa el peso del objeto.

Grama (g)
Un gramo es aproximadamente el peso de un clip.

Kilogramo (kilogramo)
Un kilogramo es aproximadamente el peso de un libro grueso.



Recuerda:
Kilo significa 1,000. Entonces, un kilogramo son 1,000 gramos. 1 kilogramo también pesa aproximadamente lo mismo que 2 libras.

1)

Bola de tenis
A. 1 gramo
B. 15 kilogramos
C. 1 kilogramo
D. 50 gramos

2)

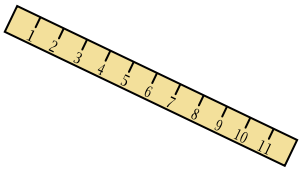

Regla
A. 999 gramos
B. 30 kilogramos
C. 20 gramos
D. 1 gramo

3)

Vela
A. 4 gramos
B. 10 kilogramos
C. 500 gramos
D. 2 kilogramos

4)

Juego de pesas
A. 200 gramos
B. 1 kilogramo
C. 100 kilogramos
D. 100 gramos

5)



Palomita de maíz
A. 1 kilogramo
B. 100 gramos
C. 100 kilogramos
D. 1 gramo

6)

Estufa
A. 15 kilogramos
B. 15 gramos
C. 70 gramos
D. 70 kilogramos

7)

Clavo
A. 3 gramos
B. 500 gramos
C. 3 kilogramos
D. 2 kilogramos

8)



Tornillo
A. 1 gramo
B. 500 kilogramos
C. 500 gramos
D. 1 kilogramo

9)

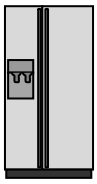

Refrigerador
A. 40 gramos
B. 200 gramos
C. 10 kilogramos
D. 90 kilogramos

Respuestas

1. D
2. C
3. A
4. C
5. D
6. D
7. A
8. A
9. D

1-9	89	78	67	56	44	33	22	11	0