Usa los ejemplos a continuación para resolver las preguntas.

Ej) Hay 15 formas a continuación.¿Cuántos grupos de 6 puedes hacer con ellos?¿Cuántas sobran?

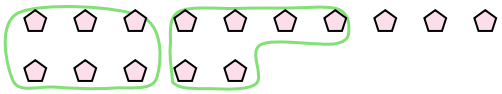

1) Hay 10 formas a continuación.¿Cuántos grupos de 7 puedes hacer con ellos?¿Cuántas sobran?

2) Hay 10 formas a continuación.¿Cuántos grupos de 3 puedes hacer con ellos?¿Cuántas sobran?

3) Hay 19 formas a continuación.¿Cuántos grupos de 6 puedes hacer con ellos?¿Cuántas sobran?

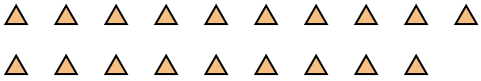

4) Hay 26 formas a continuación.¿Cuántos grupos de 8 puedes hacer con ellos?¿Cuántas sobran?

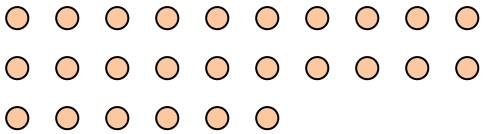

5) Hay 28 formas a continuación.¿Cuántos grupos de 8 puedes hacer con ellos?¿Cuántas sobran?

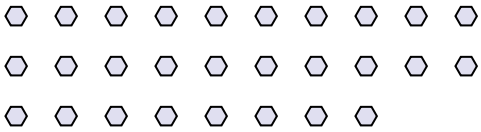

6) Hay 18 formas a continuación.¿Cuántos grupos de 4 puedes hacer con ellos?¿Cuántas sobran?

7) Hay 28 formas a continuación.¿Cuántos grupos de 7 puedes hacer con ellos?¿Cuántas sobran?



8) Hay 22 formas a continuación.¿Cuántos grupos de 3 puedes hacer con ellos?¿Cuántas sobran?

9) Hay 20 formas a continuación.¿Cuántos grupos de 2 puedes hacer con ellos?¿Cuántas sobran?

Respuestas

Ej.	2	3
1.		
2.		
3.		
4.		
5.		
6.		
7.		
8.		
9.		

1-9	89	78	67	56	44	33	22	11	0

Usa los ejemplos a continuación para resolver las preguntas.

Ej) Hay 15 formas a continuación.¿Cuántos grupos de 6 puedes hacer con ellos?¿Cuántas sobran?

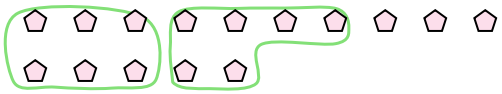

1) Hay 10 formas a continuación.¿Cuántos grupos de 7 puedes hacer con ellos?¿Cuántas sobran?

2) Hay 10 formas a continuación.¿Cuántos grupos de 3 puedes hacer con ellos?¿Cuántas sobran?

3) Hay 19 formas a continuación.¿Cuántos grupos de 6 puedes hacer con ellos?¿Cuántas sobran?

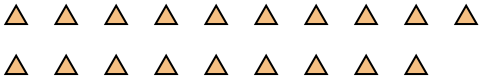

4) Hay 26 formas a continuación.¿Cuántos grupos de 8 puedes hacer con ellos?¿Cuántas sobran?

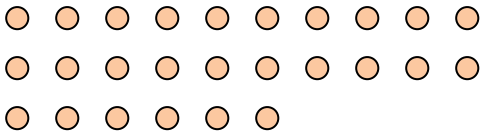

5) Hay 28 formas a continuación.¿Cuántos grupos de 8 puedes hacer con ellos?¿Cuántas sobran?

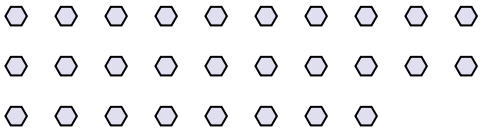

6) Hay 18 formas a continuación.¿Cuántos grupos de 4 puedes hacer con ellos?¿Cuántas sobran?

7) Hay 28 formas a continuación.¿Cuántos grupos de 7 puedes hacer con ellos?¿Cuántas sobran?



8) Hay 22 formas a continuación.¿Cuántos grupos de 3 puedes hacer con ellos?¿Cuántas sobran?

9) Hay 20 formas a continuación.¿Cuántos grupos de 2 puedes hacer con ellos?¿Cuántas sobran?

Respuestas

Ej.	2	3
1.	1	3
2.	3	1
3.	3	1
4.	3	2
5.	3	4
6.	4	2
7.	4	0
8.	7	1
9.	10	0

1-9	89	78	67	56	44	33	22	11	0