División Visual

Nombre:

Usa las formas proporcionadas para resolver las preguntas.

Ej) ¿Cuántos grupos de 6 se pueden hacer con las 18 formas de abajo?

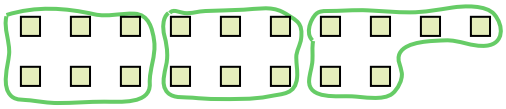

1) ¿Cuántos grupos de 3 se pueden hacer con las 30 formas de abajo?



2) ¿Cuántos grupos de 4 se pueden hacer con las 28 formas de abajo?



3) ¿Cuántos grupos de 2 se pueden hacer con las 40 formas de abajo?



4) ¿Cuántos grupos de 4 se pueden hacer con las 32 formas de abajo?

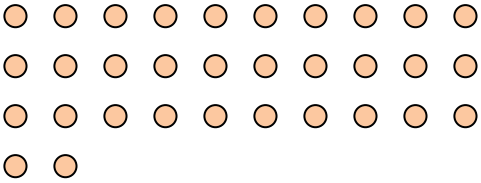

5) ¿Cuántos grupos de 9 se pueden hacer con las 27 formas de abajo?

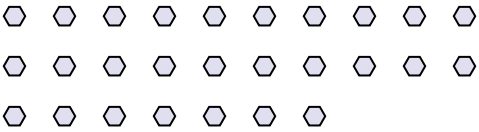

6) ¿Cuántos grupos de 6 se pueden hacer con las 36 formas de abajo?

7) ¿Cuántos grupos de 3 se pueden hacer con las 36 formas de abajo?

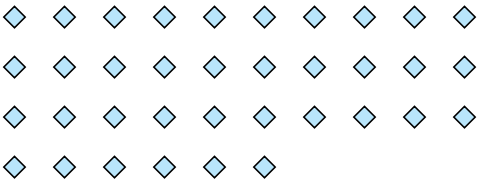

8) ¿Cuántos grupos de 6 se pueden hacer con las 36 formas de abajo?



9) ¿Cuántos grupos de 4 se pueden hacer con las 36 formas de abajo?

10) ¿Cuántos grupos de 2 se pueden hacer con las 38 formas de abajo?

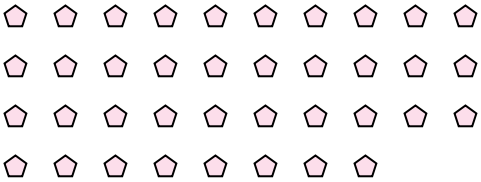

11) ¿Cuántos grupos de 7 se pueden hacer con las 14 formas de abajo?

Respuestas

Ej. 3

1. _____
2. _____
3. _____
4. _____
5. _____
6. _____
7. _____
8. _____
9. _____
10. _____
11. _____

1-10	91	82	73	64	55	45	36	27	18	9
11	0									

Usa las formas proporcionadas para resolver las preguntas.

Ej) ¿Cuántos grupos de 6 se pueden hacer con las 18 formas de abajo?

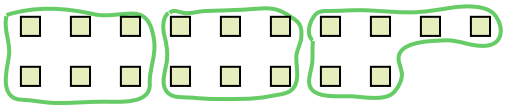

1) ¿Cuántos grupos de 3 se pueden hacer con las 30 formas de abajo?



2) ¿Cuántos grupos de 4 se pueden hacer con las 28 formas de abajo?



3) ¿Cuántos grupos de 2 se pueden hacer con las 40 formas de abajo?



4) ¿Cuántos grupos de 4 se pueden hacer con las 32 formas de abajo?

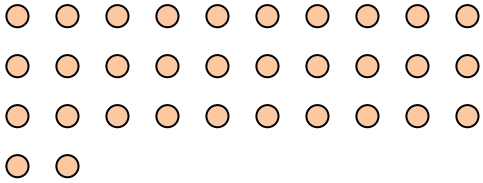

5) ¿Cuántos grupos de 9 se pueden hacer con las 27 formas de abajo?

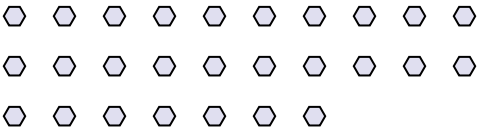

6) ¿Cuántos grupos de 6 se pueden hacer con las 36 formas de abajo?

7) ¿Cuántos grupos de 3 se pueden hacer con las 36 formas de abajo?

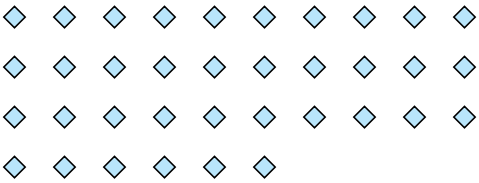

8) ¿Cuántos grupos de 6 se pueden hacer con las 36 formas de abajo?



9) ¿Cuántos grupos de 4 se pueden hacer con las 36 formas de abajo?

10) ¿Cuántos grupos de 2 se pueden hacer con las 38 formas de abajo?

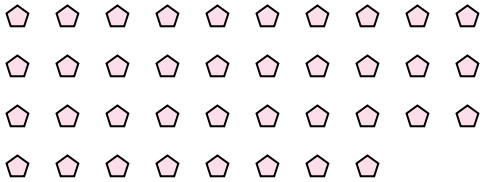

11) ¿Cuántos grupos de 7 se pueden hacer con las 14 formas de abajo?

Respuestas

Ej.	3
1.	10
2.	7
3.	20
4.	8
5.	3
6.	6
7.	12
8.	6
9.	9
10.	19
11.	2

1-10	91	82	73	64	55	45	36	27	18	9
11	0									