Rectángulos: mismo perímetro y área diferente

Nombre:

Resuelve cada problema.

1) El rectángulo de abajo tiene las dimensiones 1×9. Crea un rectángulo con el mismo perímetro, pero un área diferente.

2) El rectángulo de abajo tiene las dimensiones 1×6. Crea un rectángulo con el mismo perímetro, pero un área diferente.

3) El rectángulo de abajo tiene las dimensiones 1×10. Crea un rectángulo con el mismo perímetro, pero un área diferente.

4) El rectángulo de abajo tiene las dimensiones 6×7. Crea un rectángulo con el mismo perímetro, pero un área diferente.



5) El rectángulo de abajo tiene las dimensiones 1×8. Crea un rectángulo con el mismo perímetro, pero un área diferente.

Respuestas

1. _____
2. _____
3. _____
4. _____
5. _____

1-5	80	60	40	20	0

Resuelve cada problema.

1) El rectángulo de abajo tiene las dimensiones 1×9. Crea un rectángulo con el mismo perímetro, pero un área diferente.

3x7

2) El rectángulo de abajo tiene las dimensiones 1×6. Crea un rectángulo con el mismo perímetro, pero un área diferente.

3x4
2x5

3) El rectángulo de abajo tiene las dimensiones 1×10. Crea un rectángulo con el mismo perímetro, pero un área diferente.

5x6
2x9

4) El rectángulo de abajo tiene las dimensiones 6×7. Crea un rectángulo con el mismo perímetro, pero un área diferente.



3x10
4x9

5) El rectángulo de abajo tiene las dimensiones 1×8. Crea un rectángulo con el mismo perímetro, pero un área diferente.

4x5
2x7

Respuestas

1. 3×7
2. 3×4 : 2×5
3. 5×6 : 2×9
4. 3×10 : 4×9
5. 4×5 : 2×7

1-5	80	60	40	20	0

Resuelve cada problema.

1) El rectángulo de abajo tiene las dimensiones 1×9. Crea un rectángulo con el mismo perímetro, pero un área diferente.

2) El rectángulo de abajo tiene las dimensiones 1×4. Crea un rectángulo con el mismo perímetro, pero un área diferente.

3) El rectángulo de abajo tiene las dimensiones 4×9. Crea un rectángulo con el mismo perímetro, pero un área diferente.

4) El rectángulo de abajo tiene las dimensiones 1×6. Crea un rectángulo con el mismo perímetro, pero un área diferente.



5) El rectángulo de abajo tiene las dimensiones 2×9. Crea un rectángulo con el mismo perímetro, pero un área diferente.

Respuestas

1. _____
2. _____
3. _____
4. _____
5. _____

1-5	80	60	40	20	0

Resuelve cada problema.

1) El rectángulo de abajo tiene las dimensiones 1×9. Crea un rectángulo con el mismo perímetro, pero un área diferente.

3x7

2) El rectángulo de abajo tiene las dimensiones 1×4. Crea un rectángulo con el mismo perímetro, pero un área diferente.

2x3

3) El rectángulo de abajo tiene las dimensiones 4×9. Crea un rectángulo con el mismo perímetro, pero un área diferente.

6x7
3x10

4) El rectángulo de abajo tiene las dimensiones 1×6. Crea un rectángulo con el mismo perímetro, pero un área diferente.



3x4
2x5

5) El rectángulo de abajo tiene las dimensiones 2×9. Crea un rectángulo con el mismo perímetro, pero un área diferente.

1x10
5x6

Respuestas

1. **3×7**
2. **2×3**
3. **6×7 : 3×10**
4. **3×4 : 2×5**
5. **1×10 : 5×6**

1-5	80	60	40	20	0

Rectángulos: mismo perímetro y área diferente Nombre:

Resuelve cada problema.

1) El rectángulo de abajo tiene las dimensiones 6×7. Crea un rectángulo con el mismo perímetro, pero un área diferente.

2) El rectángulo de abajo tiene las dimensiones 4×5. Crea un rectángulo con el mismo perímetro, pero un área diferente.

3) El rectángulo de abajo tiene las dimensiones 3×7. Crea un rectángulo con el mismo perímetro, pero un área diferente.

4) El rectángulo de abajo tiene las dimensiones 2×3. Crea un rectángulo con el mismo perímetro, pero un área diferente.



5) El rectángulo de abajo tiene las dimensiones 2×5. Crea un rectángulo con el mismo perímetro, pero un área diferente.

Respuestas

1. _____
2. _____
3. _____
4. _____
5. _____

1-5	80	60	40	20	0

Resuelve cada problema.

1) El rectángulo de abajo tiene las dimensiones 6×7. Crea un rectángulo con el mismo perímetro, pero un área diferente.

3x10
4x9

2) El rectángulo de abajo tiene las dimensiones 4×5. Crea un rectángulo con el mismo perímetro, pero un área diferente.

1x8
2x7

3) El rectángulo de abajo tiene las dimensiones 3×7. Crea un rectángulo con el mismo perímetro, pero un área diferente.

1x9

4) El rectángulo de abajo tiene las dimensiones 2×3. Crea un rectángulo con el mismo perímetro, pero un área diferente.



1x4

5) El rectángulo de abajo tiene las dimensiones 2×5. Crea un rectángulo con el mismo perímetro, pero un área diferente.

1x6
3x4

Respuestas

1. **3×10 : 4×9**
2. **1×8 : 2×7**
3. **1×9**
4. **1×4**
5. **1×6 : 3×4**

1-5	80	60	40	20	0

Rectángulos: mismo perímetro y área diferente Nombre:

Resuelve cada problema.

1) El rectángulo de abajo tiene las dimensiones 1×8. Crea un rectángulo con el mismo perímetro, pero un área diferente.

2) El rectángulo de abajo tiene las dimensiones 3×10. Crea un rectángulo con el mismo perímetro, pero un área diferente.

3) El rectángulo de abajo tiene las dimensiones 2×5. Crea un rectángulo con el mismo perímetro, pero un área diferente.

4) El rectángulo de abajo tiene las dimensiones 3×7. Crea un rectángulo con el mismo perímetro, pero un área diferente.

5) El rectángulo de abajo tiene las dimensiones 2×3. Crea un rectángulo con el mismo perímetro, pero un área diferente.

Respuestas

1. _____
2. _____
3. _____
4. _____
5. _____

1-5	80	60	40	20	0

Resuelve cada problema.

1) El rectángulo de abajo tiene las dimensiones 1×8. Crea un rectángulo con el mismo perímetro, pero un área diferente.

4x5
2x7

2) El rectángulo de abajo tiene las dimensiones 3×10. Crea un rectángulo con el mismo perímetro, pero un área diferente.

4x9
6x7

3) El rectángulo de abajo tiene las dimensiones 2×5. Crea un rectángulo con el mismo perímetro, pero un área diferente.

3x4
1x6

4) El rectángulo de abajo tiene las dimensiones 3×7. Crea un rectángulo con el mismo perímetro, pero un área diferente.



1x9

5) El rectángulo de abajo tiene las dimensiones 2×3. Crea un rectángulo con el mismo perímetro, pero un área diferente.

1x4

Respuestas

1. **4×5 : 2×7**
2. **4×9 : 6×7**
3. **3×4 : 1×6**
4. **1×9**
5. **1×4**

1-5	80	60	40	20	0

Rectángulos: mismo perímetro y área diferente Nombre:

Resuelve cada problema.

Respuestas

1. _____
2. _____
3. _____
4. _____
5. _____

1) El rectángulo de abajo tiene las dimensiones 2×5. Crea un rectángulo con el mismo perímetro, pero un área diferente.

2) El rectángulo de abajo tiene las dimensiones 1×4. Crea un rectángulo con el mismo perímetro, pero un área diferente.

3) El rectángulo de abajo tiene las dimensiones 3×7. Crea un rectángulo con el mismo perímetro, pero un área diferente.

4) El rectángulo de abajo tiene las dimensiones 2×9. Crea un rectángulo con el mismo perímetro, pero un área diferente.



5) El rectángulo de abajo tiene las dimensiones 6×7. Crea un rectángulo con el mismo perímetro, pero un área diferente.

1-5	80	60	40	20	0

Resuelve cada problema.

1) El rectángulo de abajo tiene las dimensiones 2×5. Crea un rectángulo con el mismo perímetro, pero un área diferente.

1x6
3x4

2) El rectángulo de abajo tiene las dimensiones 1×4. Crea un rectángulo con el mismo perímetro, pero un área diferente.

2x3

3) El rectángulo de abajo tiene las dimensiones 3×7. Crea un rectángulo con el mismo perímetro, pero un área diferente.

1x9

4) El rectángulo de abajo tiene las dimensiones 2×9. Crea un rectángulo con el mismo perímetro, pero un área diferente.



5x6
1x10

5) El rectángulo de abajo tiene las dimensiones 6×7. Crea un rectángulo con el mismo perímetro, pero un área diferente.

3x10
4x9

Respuestas

1. **1×6 : 3×4**
2. **2×3**
3. **1×9**
4. **5×6 : 1×10**
5. **3×10 : 4×9**

1-5	80	60	40	20	0

Resuelve cada problema.

1) El rectángulo de abajo tiene las dimensiones 2×5. Crea un rectángulo con el mismo perímetro, pero un área diferente.

2) El rectángulo de abajo tiene las dimensiones 1×4. Crea un rectángulo con el mismo perímetro, pero un área diferente.

3) El rectángulo de abajo tiene las dimensiones 2×9. Crea un rectángulo con el mismo perímetro, pero un área diferente.

4) El rectángulo de abajo tiene las dimensiones 1×8. Crea un rectángulo con el mismo perímetro, pero un área diferente.

5) El rectángulo de abajo tiene las dimensiones 3×10. Crea un rectángulo con el mismo perímetro, pero un área diferente.

Respuestas

1. _____
2. _____
3. _____
4. _____
5. _____

1-5	80	60	40	20	0

Resuelve cada problema.

1) El rectángulo de abajo tiene las dimensiones 2×5. Crea un rectángulo con el mismo perímetro, pero un área diferente.

1x6
3x4

2) El rectángulo de abajo tiene las dimensiones 1×4. Crea un rectángulo con el mismo perímetro, pero un área diferente.

2x3

3) El rectángulo de abajo tiene las dimensiones 2×9. Crea un rectángulo con el mismo perímetro, pero un área diferente.

5x6
1x10

4) El rectángulo de abajo tiene las dimensiones 1×8. Crea un rectángulo con el mismo perímetro, pero un área diferente.



2x7
4x5

5) El rectángulo de abajo tiene las dimensiones 3×10. Crea un rectángulo con el mismo perímetro, pero un área diferente.

4x9
6x7

Respuestas

1. **1×6 : 3×4**
2. **2×3**
3. **5×6 : 1×10**
4. **2×7 : 4×5**
5. **4×9 : 6×7**

1-5	80	60	40	20	0

Rectángulos: mismo perímetro y área diferente

Nombre:

Resuelve cada problema.

1) El rectángulo de abajo tiene las dimensiones 2×5. Crea un rectángulo con el mismo perímetro, pero un área diferente.

2) El rectángulo de abajo tiene las dimensiones 3×7. Crea un rectángulo con el mismo perímetro, pero un área diferente.

3) El rectángulo de abajo tiene las dimensiones 5×6. Crea un rectángulo con el mismo perímetro, pero un área diferente.

4) El rectángulo de abajo tiene las dimensiones 1×4. Crea un rectángulo con el mismo perímetro, pero un área diferente.



5) El rectángulo de abajo tiene las dimensiones 4×9. Crea un rectángulo con el mismo perímetro, pero un área diferente.

Respuestas

1. _____
2. _____
3. _____
4. _____
5. _____

1-5	80	60	40	20	0

Resuelve cada problema.

1) El rectángulo de abajo tiene las dimensiones 2×5. Crea un rectángulo con el mismo perímetro, pero un área diferente.

3x4
1x6

2) El rectángulo de abajo tiene las dimensiones 3×7. Crea un rectángulo con el mismo perímetro, pero un área diferente.

1x9

3) El rectángulo de abajo tiene las dimensiones 5×6. Crea un rectángulo con el mismo perímetro, pero un área diferente.

2x9
1x10

4) El rectángulo de abajo tiene las dimensiones 1×4. Crea un rectángulo con el mismo perímetro, pero un área diferente.



2x3

5) El rectángulo de abajo tiene las dimensiones 4×9. Crea un rectángulo con el mismo perímetro, pero un área diferente.

6x7
3x10

Respuestas

1. **3×4 : 1×6**
2. **1×9**
3. **2×9 : 1×10**
4. **2×3**
5. **6×7 : 3×10**

1-5	80	60	40	20	0

Rectángulos: mismo perímetro y área diferente Nombre:

Resuelve cada problema.

1) El rectángulo de abajo tiene las dimensiones 2×7. Crea un rectángulo con el mismo perímetro, pero un área diferente.

2) El rectángulo de abajo tiene las dimensiones 2×3. Crea un rectángulo con el mismo perímetro, pero un área diferente.

3) El rectángulo de abajo tiene las dimensiones 1×6. Crea un rectángulo con el mismo perímetro, pero un área diferente.

4) El rectángulo de abajo tiene las dimensiones 3×7. Crea un rectángulo con el mismo perímetro, pero un área diferente.



5) El rectángulo de abajo tiene las dimensiones 1×10. Crea un rectángulo con el mismo perímetro, pero un área diferente.

Respuestas

1. _____
2. _____
3. _____
4. _____
5. _____

1-5	80	60	40	20	0

Resuelve cada problema.

1) El rectángulo de abajo tiene las dimensiones 2×7. Crea un rectángulo con el mismo perímetro, pero un área diferente.

1x8
4x5

2) El rectángulo de abajo tiene las dimensiones 2×3. Crea un rectángulo con el mismo perímetro, pero un área diferente.

1x4

3) El rectángulo de abajo tiene las dimensiones 1×6. Crea un rectángulo con el mismo perímetro, pero un área diferente.

3x4
2x5

4) El rectángulo de abajo tiene las dimensiones 3×7. Crea un rectángulo con el mismo perímetro, pero un área diferente.



1x9

5) El rectángulo de abajo tiene las dimensiones 1×10. Crea un rectángulo con el mismo perímetro, pero un área diferente.

2x9
5x6

Respuestas

1. **1×8 : 4×5**
2. **1×4**
3. **3×4 : 2×5**
4. **1×9**
5. **2×9 : 5×6**

1-5	80	60	40	20	0

Resuelve cada problema.

1) El rectángulo de abajo tiene las dimensiones 5×6. Crea un rectángulo con el mismo perímetro, pero un área diferente.

2) El rectángulo de abajo tiene las dimensiones 3×7. Crea un rectángulo con el mismo perímetro, pero un área diferente.

3) El rectángulo de abajo tiene las dimensiones 1×8. Crea un rectángulo con el mismo perímetro, pero un área diferente.

4) El rectángulo de abajo tiene las dimensiones 2×5. Crea un rectángulo con el mismo perímetro, pero un área diferente.



5) El rectángulo de abajo tiene las dimensiones 3×10. Crea un rectángulo con el mismo perímetro, pero un área diferente.

Respuestas

1. _____
2. _____
3. _____
4. _____
5. _____

1-5	80	60	40	20	0

Resuelve cada problema.

1) El rectángulo de abajo tiene las dimensiones 5×6. Crea un rectángulo con el mismo perímetro, pero un área diferente.

2x9
1x10

2) El rectángulo de abajo tiene las dimensiones 3×7. Crea un rectángulo con el mismo perímetro, pero un área diferente.

1x9

3) El rectángulo de abajo tiene las dimensiones 1×8. Crea un rectángulo con el mismo perímetro, pero un área diferente.

4x5
2x7

4) El rectángulo de abajo tiene las dimensiones 2×5. Crea un rectángulo con el mismo perímetro, pero un área diferente.



3x4
1x6

5) El rectángulo de abajo tiene las dimensiones 3×10. Crea un rectángulo con el mismo perímetro, pero un área diferente.

6x7
4x9

Respuestas

1. **2×9 : 1×10**
2. **1×9**
3. **4×5 : 2×7**
4. **3×4 : 1×6**
5. **6×7 : 4×9**

1-5	80	60	40	20	0

Rectángulos: mismo perímetro y área diferente Nombre:

Resuelve cada problema.

1) El rectángulo de abajo tiene las dimensiones 3×7. Crea un rectángulo con el mismo perímetro, pero un área diferente.

2) El rectángulo de abajo tiene las dimensiones 1×6. Crea un rectángulo con el mismo perímetro, pero un área diferente.

3) El rectángulo de abajo tiene las dimensiones 6×7. Crea un rectángulo con el mismo perímetro, pero un área diferente.

4) El rectángulo de abajo tiene las dimensiones 2×3. Crea un rectángulo con el mismo perímetro, pero un área diferente.



5) El rectángulo de abajo tiene las dimensiones 1×8. Crea un rectángulo con el mismo perímetro, pero un área diferente.

Respuestas

1. _____
2. _____
3. _____
4. _____
5. _____

1-5	80	60	40	20	0

Resuelve cada problema.

1) El rectángulo de abajo tiene las dimensiones 3×7. Crea un rectángulo con el mismo perímetro, pero un área diferente.

1x9

2) El rectángulo de abajo tiene las dimensiones 1×6. Crea un rectángulo con el mismo perímetro, pero un área diferente.

3x4
2x5

3) El rectángulo de abajo tiene las dimensiones 6×7. Crea un rectángulo con el mismo perímetro, pero un área diferente.

4x9
3x10

4) El rectángulo de abajo tiene las dimensiones 2×3. Crea un rectángulo con el mismo perímetro, pero un área diferente.



1x4

5) El rectángulo de abajo tiene las dimensiones 1×8. Crea un rectángulo con el mismo perímetro, pero un área diferente.

4x5
2x7

Respuestas

1. **1×9**
2. **3×4 : 2×5**
3. **4×9 : 3×10**
4. **1×4**
5. **4×5 : 2×7**

1-5	80	60	40	20	0